Презиме и Име _____ Датум: __/__/__

ТЕСТОВИ - 1 / 3 одд. / Тема - 7: Должина

____ **1** 5 поени/___

Со која ознака се запишува сантиметар?

а) dm
б) cm
в) m
г) l

____ **2** 5 поени/___

Должина на патека се мери со:

а) 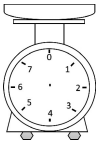

б) 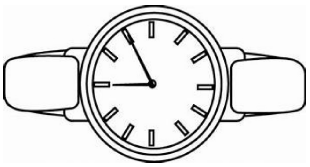

в)

г) 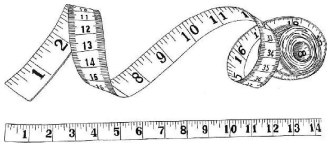

____ **3** 5 поени/___

Кое равенство е точно?

а) 1 m = 10 cm
б) 1 m = 10 dm
в) 1 m = 100 dm
г) 1 m = 1 dm

____ **4** 5 поени/___

1 m 2 dm = _____ dm.

а) 22
б) 12
в) 2
г) 32
д) Ниту едно од понудените

5 10 поени/___

Објасни ја врската меѓу 1 m и 100 cm.

____ **6** 1 поени/___

Должината на предметот на цртежот изнесува _____ cm.



а) 18
б) 19
в) 17
г) 16

____ **7** 5 поени/___

Должината на ленијарот најсоодветно се мери во:

а) сантиметри
б) метри
в) милиметри
г) километри

____ **8** 5 поени/___

Користејќи ги знаците за >,<, или =, да се спореди
34 dm ____ 34 dm

а) >
б) =
в) <

9 10 поени/___

Во екипата има 3 кошаркари, секој со висина 2 метри. Колку изнесува нивната вкупна висина?

_____ кошаркари · ___ метри = ____ метри.

10 10 поени/___

Да се измери должината на искршената линија.



Искршената линија е долга: ____ cm + ____ cm + _____ cm = ____ cm

ТЕСТОВИ - 1 / 3 одд. / Тема - 7: Должина
РЕШЕНИЈА:

1 ANS: Б PTS: 5
2 ANS: Г PTS: 5
3 ANS: Б PTS: 5
4 ANS: Б PTS: 5
5 ANS:
Еден метар е еднаков на сто сантиметри.

PTS: 10
6 ANS: В PTS: 1
7 ANS: А PTS: 5
8 ANS: Б
34 dm = 34 dm

PTS: 5
9 ANS:
3 кошаркари · 2 метри = 6 метри.

PTS: 10
10 ANS:
Искршената линија е долга 2 cm + 5 cm + 1 cm = 8 cm

PTS: 10

 www.matematika.mk © 2026

Презиме и Име _____ Датум: __/__/__

ТЕСТОВИ - 1 / 3 одд. / Тема - 7: Должина

____ **1** 5 поени/___

Кое равенство е точно?

а) 1 m = 1 dm
б) 1 m = 10 dm
в) 1 m = 10 cm
г) 1 m = 100 dm

____ **2** 1 поени/___

Должината на предметот на цртежот изнесува _____ cm.



а) 19
б) 18
в) 20
г) 21

____ **3** 5 поени/___

Должина на страна на куќа се мери со:

а) 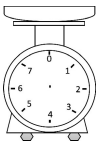

б) 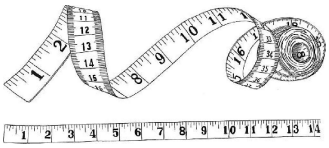

в)

г) 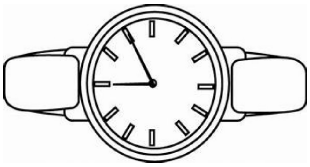

4 10 поени/___

Да се измери должината на искршената линија.

Искршената линија е долга: ____ cm + ____ cm + _____ cm = ____ cm

____ **5** 5 поени/___

8 m 1 dm = _____ dm.

а) 91
б) 101
в) 71
г) 81
д) Ниту едно од понудените

____ **6** 5 поени/___

Користејќи ги знаците за >,<, или =, да се спореди

83 dm ____ 83 dm

а) <
б) =
в) >

7 10 поени/___

Во екипата има 2 кошаркари, секој со висина 2 метри. Колку изнесува нивната вкупна висина?

_____ кошаркари · ___ метри = ____ метри.

____ **8** 5 поени/___

Должината на прстите на раката најсоодветно се мери во:

а) километри
б) сантиметри
в) милиметри
г) метри

____ **9** 5 поени/___

Со која ознака се запишува сантиметар?

а) dm
б) m
в) l
г) cm

10 10 поени/___

Објасни ја врската меѓу 1 m и 100 cm.

ТЕСТОВИ - 1 / 3 одд. / Тема - 7: Должина
РЕШЕНИЈА:

1 ANS: Б PTS: 5
2 ANS: А PTS: 1
3 ANS: Б PTS: 5
4 ANS:
Искршената линија е долга 3 cm + 1 cm + 1 cm = 5 cm

PTS: 10
5 ANS: Г PTS: 5
6 ANS: Б
83 dm = 83 dm

PTS: 5
7 ANS:
2 кошаркари · 2 метри = 4 метри.

PTS: 10
8 ANS: Б PTS: 5
9 ANS: Г PTS: 5
10 ANS:
Еден метар е еднаков на сто сантиметри.

PTS: 10

 www.matematika.mk © 2026

Презиме и Име _____ Датум: __/__/__

ТЕСТОВИ - 1 / 3 одд. / Тема - 7: Должина

____ **1** 5 поени/___

Кое равенство е точно?

а) 1 m = 100 dm
б) 1 m = 1 dm
в) 1 m = 10 cm
г) 1 m = 10 dm

____ **2** 5 поени/___

Користејќи ги знаците за >,<, или =, да се спореди
20 dm ____ 20 dm

а) <
б) =
в) >

____ **3** 1 поени/___

Должината на предметот на цртежот изнесува _____ cm.



а) 17
б) 15
в) 16
г) 18

____ **4** 5 поени/___

Со која ознака се запишува сантиметар?

а) cm
б) m
в) dm
г) l

5 10 поени/___

Да се измери должината на искршената линија.

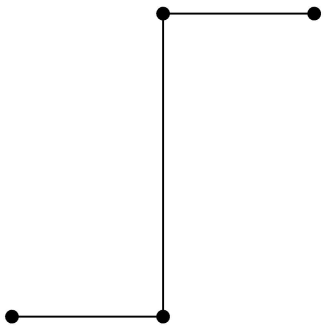

Искршената линија е долга: ____ cm + ____ cm + _____ cm = ____ cm

6 10 поени/___
Објасни ја врската меѓу 1 m и 100 cm.

7 10 поени/___
Во екипата има 2 кошаркари, секој со висина 2 метри. Колку изнесува нивната вкупна висина?

_____ кошаркари · ___ метри = _____ метри.

____ **8** 5 поени/___
Должина на греда се мери со:

а) 

б) 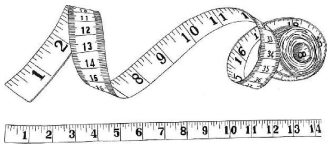

в) 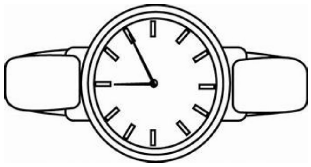

г)

____ **9** 5 поени/___
4 m 3 dm = _____ dm.

а) 43
б) 33
в) 53
г) 63
д) Ниту едно од понудените

____ **10** 5 поени/___
Должината на боичките најсоодветно се мери во:

а) милиметри
б) метри
в) километри
г) сантиметри

ТЕСТОВИ - 1 / 3 одд. / Тема - 7: Должина
РЕШЕНИЈА:

1 ANS: Г PTS: 5

2 ANS: Б
20 dm = 20 dm

PTS: 5

3 ANS: В PTS: 1

4 ANS: А PTS: 5

5 ANS:
Искршената линија е долга 2 cm + 4 cm + 2 cm = 8 cm

PTS: 10

6 ANS:
Еден метар е еднаков на сто сантиметри.

PTS: 10

7 ANS:
2 кошаркари · 2 метри = 4 метри.

PTS: 10

8 ANS: Б PTS: 5

9 ANS: А PTS: 5

10 ANS: Г PTS: 5

 www.matematika.mk © 2026