Презиме и Име _____ Датум: __/__/__

ТЕСТОВИ - 1 / 3одд. / Тема 8: Маса

____ **1** 5 поени/___
Со која ознака се запишува килограм?

а) cm
б) m
в) g
г) kg

____ **2** 5 поени/___
Кое равенство е точно?

а) 1 kg = 10 g
б) 1 kg = 1 g
в) 1 kg = 100 g
г) 1 kg = 1 000 g

3 10 поени/___
Објасни ја врската меѓу 1 kg и 1 000 g.

____ **4** 5 поени/___
_____ g + 740 g = 1 kg

а) 260
б) 340
в) 190
г) 160

____ **5** 5 поени/___
Да се одредат точните одговори:

а) Масата на едно маче, може да биде околу 2 килограми
б) масата на едно столче е околу 100 килограми
в) Масата на едно куче може да биде околу 5 килограми
г) масата на еден камион е околу 100 килограми

6 10 поени/___
Да се нацртаат стрелките на вагите според масата на предметот што се мери на секоја од нив.



7 10 поени/___

Да се подредат од најмалата до најголемата маса:

90kg, 160g, 100kg, 2000g, 92g, 720kg, 96kg

_____

8 10 поени/___

Едниот пакет е тежок 45 килограми. Вториот пакет е тежок 35 килограми. Заедно, двата пакета се тешки _____ килограм.

9 10 поени/___

Производителот спакувал 10 килограми со компири во 2 пакувања. По колку килограми компири имало во една гајба.

10 10 поени/___

___ g + 700 g = 1 Kg

___ g + 660 g = 1 Kg

___ g + 400 g = 1 Kg

720 g + ___ g = 1 Kg

550 g + ___ g = 1 Kg

500 g + ___ g = 1 Kg

ТЕСТОВИ - 1 / 3одд. / Тема 8: Маса
РЕШЕНИЈА:

1 ANS: Г PTS: 5
2 ANS: Г PTS: 5
3 ANS:
Еден килограм е еднаков на илјада грама.

PTS: 10
4 ANS: А
260 g + 740 g = 1000g = 1 kg

PTS: 5
5 ANS: А, В PTS: 5
6 ANS:



PTS: 10
7 ANS:

Од најголема до најмала маса 720, 100, 96, 90 kg 2000, 160, 92 g

PTS: 10
8 ANS:
Едниот пакет е тежок 45 килограми. Вториот пакет е тежок 35 килограми.
Заедно, двата пакета се тешки 45+35=80 килограм.

PTS: 10
9 ANS:
Во една гајба имало 10 : 2 = 5 килограми компири.

PTS: 10

10 ANS:

300 g + 700 g = 1 Kg
340 g + 660 g = 1 Kg
600 g + 400 g = 1 Kg
720 g + 280 g = 1 Kg
550 g + 450 g = 1 Kg
500 g + 500 g = 1 Kg

PTS: 10

Презиме и Име _____ Датум: __/__/__

ТЕСТОВИ - 1 / Зодд. / Тема 8: Маса

1 10 поени/___

Едниот пакет е тежок 45 килограми. Вториот пакет е тежок 40 килограми. Заедно, двата пакета се тешки _____ килограм.

2 10 поени/___

Да се подредат од најмалата до најголемата маса:

98kg 740g, 78kg, 910kg, 100kg, 17g, 2500g,

_____

____ **3** 5 поени/___

_____ g + 430 g = 1 kg

а) 640 в) 570
б) 490 г) 540

____ **4** 5 поени/___

Со која ознака се запишува килограм?

а) cm в) g
б) m г) kg

5 10 поени/___

Да се нацртаат стрелките на вагите според масата на предметот што се мери на секоја од нив.



6 10 поени/___

___ g + 500 g = 1 Kg 830 g + ___ g = 1 Kg
___ g + 400 g = 1 Kg 750 g + ___ g = 1 Kg
___ g + 530 g = 1 Kg 850 g + ___ g = 1 Kg

7 10 поени/___

Објасни ја врската меѓу 1 kg и 1 000 g.

____ **8** 5 поени/___

Кое равенство е точно?

а) 1 kg = 10 g
б) 1 kg = 100 g
в) 1 kg = 1 g
г) 1 kg = 1 000 g

____ **9** 5 поени/___

Да се одредат точните одговори:

а) Масата на едно куче може да биде околу 5 килограми
б) Масата на едно маче, може да биде околу 2 килограми
в) масата на еден телевизор е околу 100 грама
г) Масата на еден автомобил е околу 100 грама

10 10 поени/___

Производителот спакувал 70 килограми со компири во 10 пакети. По колку килограми компири имало во едно пакување.

ТЕСТОВИ - 1 / 3одд. / Тема 8: Маса
РЕШЕНИЈА:

1 ANS:
Едниот пакет е тежок 45 килограми. Вториот пакет е тежок 40 килограми. Заедно, двата пакета се тешки 45+40=85 килограм.

PTS: 10

2 ANS:

Од најголема до најмала маса 910, 100, 98, 78 kg 2500, 740, 17 g

PTS: 10

3 ANS: B
570 g + 430 g = 1000g = 1 kg

PTS: 5

4 ANS: Г PTS: 5

5 ANS:



PTS: 10

6 ANS:

500 g + 500 g = 1 Kg	830 g + 170 g = 1 Kg
600 g + 400 g = 1 Kg	750 g + 250 g = 1 Kg
470 g + 530 g = 1 Kg	850 g + 150 g = 1 Kg

PTS: 10

7 ANS:
Еден килограм е еднаков на илјада грама.

PTS: 10

8 ANS: Г PTS: 5

9 ANS: А, Б PTS: 5

10 ANS:
Во едно пакување имало 70 : 10 = 7 килограми компири.

PTS: 10

Презиме и Име _____ Датум: __/__/__

ТЕСТОВИ - 1 / 3одд. / Тема 8: Маса

1 10 поени/___

Едниот пакет е тежок 25 килограми. Вториот пакет е тежок 20 килограми. Заедно, двата пакета се тешки _____ килограм.

____ **2** 5 поени/___

_____ g + 200 g = 1 kg

а) 700 в) 800
б) 860 г) 720

____ **3** 5 поени/___

Кое равенство е точно?

а) 1 kg = 100 g в) 1 kg = 1 g
б) 1 kg = 10 g г) 1 kg = 1 000 g

4 10 поени/___

Производителот спакувал 20 килограми со компири во 2 пакети. По колку килограми компири имало во еден пакет.

5 10 поени/___

Да се подредат од најмалата до најголемата маса:

15g, 98kg, 660kg, 47kg 640g, 100kg, 1100g,

_____

6 10 поени/___

Да се нацртаат стрелките на вагите според масата на предметот што се мери на секоја од нив.

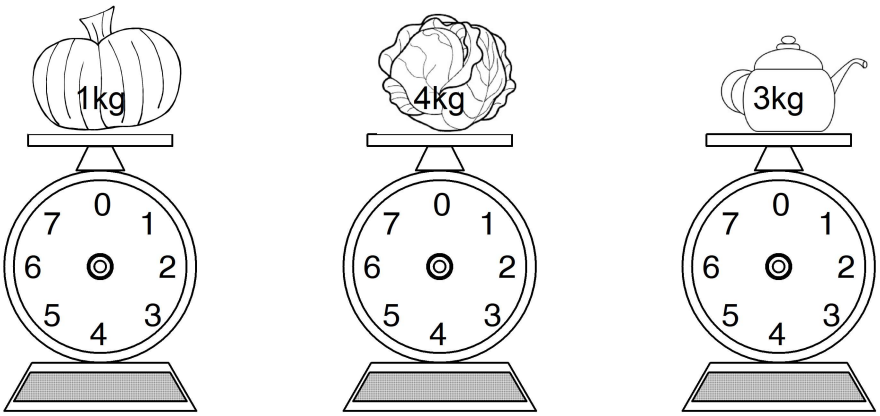

____ **7** 5 поени/___

Со која ознака се запишува килограм?

а) g
б) cm
в) kg
г) m

8 10 поени/___

___ g + 900 g = 1 Kg
___ g + 170 g = 1 Kg
___ g + 580 g = 1 Kg
520 g + ___ g = 1 Kg
800 g + ___ g = 1 Kg
900 g + ___ g = 1 Kg

____ **9** 5 поени/___

Да се одредат точните одговори:

а) масата на еден мобилен телефон е околу 100 грама
б) масата на еден молив е околу 500 килограми
в) Масата на еден човек може да биде 70 килограми
г) масата на еден лаптот е околу 200 грама

10 10 поени/___

Објасни ја врската меѓу 1 kg и 1 000 g.

ТЕСТОВИ - 1 / 3одд. / Тема 8: Маса
РЕШЕНИЈА:

1 ANS:
Едниот пакет е тежок 25 килограми. Вториот пакет е тежок 20 килограми.
Заедно, двата пакета се тешки 25+20=45 килограм.

PTS: 10

2 ANS: B
800 g + 200 g = 1000g = 1 kg

PTS: 5

3 ANS: Г PTS: 5

4 ANS:
Во еден пакет имало 20 : 2 = 10 килограми компири.

PTS: 10

5 ANS:

Од најголема до најмала маса 660, 100, 98, 47 кg 1100, 640, 15 g

PTS: 10

6 ANS:

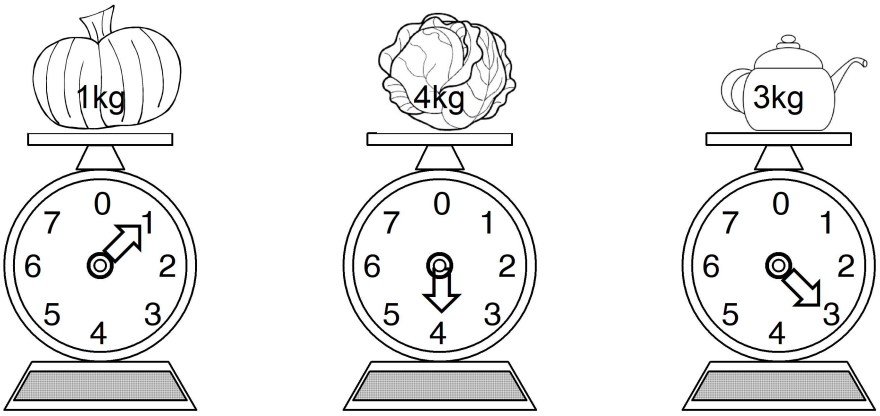

PTS: 10

7 ANS: B PTS: 5

8 ANS:

100 g + 900 g = 1 Kg	520 g + 480 g = 1 Kg
830 g + 170 g = 1 Kg	800 g + 200 g = 1 Kg
420 g + 580 g = 1 Kg	900 g + 100 g = 1 Kg

PTS: 10

9 ANS: A, B PTS: 5

10 ANS:
Еден килограм е еднаков на илјада грама.

PTS: 10