Презиме и Име _____ Датум: __/__/__

ТЕСТОВИ - 1 / 3 одд. / Тема - 6: Пари

____ **1** 5 поени/___
Кои пари се изработени од хартија?

а) Медали
б) Монети
в) Жетони
г) Банкноти

____ **2** 10 поени/___
Кои од наведените се видови пари?

а) Монети
б) Тетратки
в) Банкноти
г) Линијари

____ **3** 5 поени/___
Точната сума пари на сликата изнесува:



а) 13 денари
б) 15 денари
в) 1 денари
г) 10 денари

____ **4** 5 поени/___
Точната сума пари на сликата изнесува:

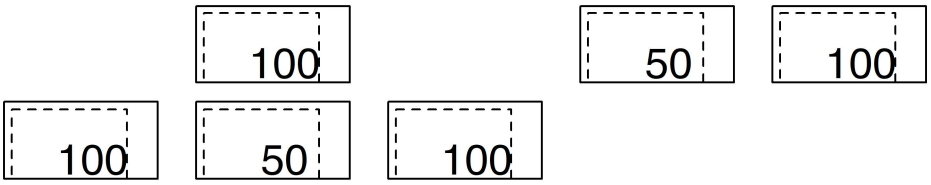

а) 468 денари
б) 500 денари
в) 660 денари
г) 650 денари

____ **5** 5 поени/___

Вкупната вредност на монетите изнесува _____ денари.

а) 820 денари
б) 780 денари
в) 790 денари
г) 800 денари
д) Ниту едно од понудените

____ **6** 5 поени/___

Јана имала 710 денари. Требала да купи подарок за 100 денари. Колку денари ќе и останат на Јана?

а) 610 денари
б) 608 денари
в) 618 денари
г) 619 денари

____ **7** 5 поени/___

Климент имал 10 банкноти од по 50 денари. Во една продавница потрошил 19 денари а во друга продавница потрошил 12 денари. Колку денари му останале на Климент?

а) 467 денари
б) 477 денари
в) 469 денари
г) 474 денари

8 10 поени/___

Колку денари се потребни на ученикот за да ги купи производите?



Потребни се ____ денари + ____ денари + ___ денари = _____ денари

9 10 поени/___

Климент имал 570 денари. Купил 4 од по 120 денари. Колку денари му останале?

10 10 поени/___

Петар имал 7 банкноти од по 10 денари. За солена кифла и кисела вода треба да плати 390 денари. Дали има доволно денари?

ТЕСТОВИ - 1 / 3 одд. / Тема - 6: Пари
РЕШЕНИЈА:

1 ANS: Г PTS: 5
2 ANS: А, В PTS: 10
3 ANS: Г PTS: 5
4 ANS: Б PTS: 5
5 ANS: Г PTS: 5
6 ANS: А
На Јана и останале 710 - 100 = 610 денари

PTS: 5
7 ANS: В
10 x 50 - (19 + 12) = 469

PTS: 5
8 ANS:
320 денари + 70 денари + 45 денари = 435 денари

PTS: 10
9 ANS:
Му останале 570 - 120· 4 = 570 - 480 = 90 денари

PTS: 10
10 ANS:
Имал 7 · 10 = 70 денари, а му требале 390 денари.
Заклучок: не, немал доволно пари

PTS: 10

Презиме и Име _____ Датум: __/__/__

ТЕСТОВИ - 1 / 3 одд. / Тема - 6: Пари

____ **1** 5 поени/___

Точната сума пари на сликата изнесува:



а) 250 денари
б) 400 денари
в) 450 денари
г) 240 денари

____ **2** 5 поени/___

Точната сума пари на сликата изнесува:



а) 17 денари
б) 49 денари
в) 50 денари
г) 20 денари

3 10 поени/___

Перо имал 510 денари. Купил 2 од по 80 денари. Колку денари му останале?

4 10 поени/___

Петар имал 6 банкноти од по 100 денари. За бурек и геврек треба да плати 140 денари. Дали има доволно денари?

____ **5** 5 поени/___

Ангел имал 8 банкноти од по 100 денари. Во една продавница потрошил 4 денари а во друга продавница потрошил 12 денари. Колку денари му останале на Ангел?

а) 784 денари
б) 779 денари
в) 790 денари
г) 794 денари

____ **6** 5 поени/___

Вкупната вредност на монетите изнесува _____ денари.

а) 810 денари
б) 780 денари
в) 770 денари
г) 800 денари
д) Ниту едно од понудените

____ **7** 5 поени/___

Тања имала 580 денари. Требала да купи подарок за 400 денари. Колку денари ќе и останат на Тања?

а) 180 денари
б) 190 денари
в) 184 денари
г) 179 денари

____ **8** 5 поени/___

Кои пари се изработени од хартија?

а) Банкноти
б) Жетони
в) Медали
г) Монети

9 10 поени/___

Колку денари се потребни на ученикот за да ги купи производите?



Потребни се ____ денари + ____ денари + ___ денари = _____ денари

____ **10** 10 поени/___

Кои од наведените се видови пари?

а) Линијари
б) Тетратки
в) Банкноти
г) Монети

ТЕСТОВИ - 1 / 3 одд. / Тема - 6: Пари
РЕШЕНИЈА:

1 ANS: А PTS: 5
2 ANS: Г PTS: 5
3 ANS:
Му останале 510 - 80· 2 = 510 - 160 = 350 денари

PTS: 10
4 ANS:
Имал 6 · 100 = 600 денари, а му требале 140 денари.
Заклучок: да, имал доволно пари

PTS: 10
5 ANS: А
8 x 100 - (4 + 12) = 784

PTS: 5
6 ANS: Г PTS: 5
7 ANS: А
На Тања и останале 580 - 400 = 180 денари

PTS: 5
8 ANS: А PTS: 5
9 ANS:
360 денари + 70 денари + 70 денари = 500 денари

PTS: 10
10 ANS: В, Г PTS: 10

Презиме и Име _____ Датум: __/__/__

ТЕСТОВИ - 1 / 3 одд. / Тема - 6: Пари

____ **1** 5 поени/___

Марио имал 10 банкноти од по 50 денари. Во една продавница потрошил 35 денари а во друга продавница потрошил 47 денари. Колку денари му останале на Марио?

а) 423 денари
б) 418 денари
в) 417 денари
г) 419 денари

____ **2** 5 поени/___

Точната сума пари на сликата изнесува:



а) 20 денари
б) 7 денари
в) 10 денари
г) 17 денари

3 10 поени/___

Петар имал 10 банкноти од по 50 денари. За геврек и јогурт треба да плати 370 денари. Дали има доволно денари?

____ **4** 5 поени/___

Вкупната вредност на монетите изнесува _____ денари.

а) 770 денари
б) 780 денари
в) 830 денари
г) 800 денари
д) Ниту едно од понудените

5 10 поени/___

Никола имал 490 денари. Купил 3 од по 80 денари. Колку денари му останале?

____ **6** 5 поени/___

Кои пари се изработени од хартија?

а) Жетони
б) Монети
в) Банкноти
г) Медали

7 10 поени/___

Колку денари се потребни на ученикот за да ги купи производите?



Потребни се _____ денари + _____ денари + ___ денари = _____ денари

____ **8** 10 поени/___

Кои од наведените се видови пари?

а) Монети
б) Банкноти
в) Тетратки
г) Линијари

____ **9** 5 поени/___

Точната сума пари на сликата изнесува:

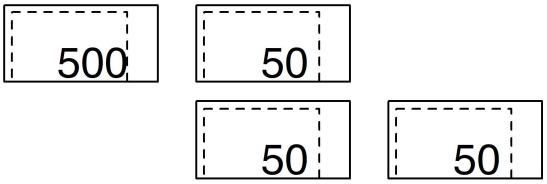

а) 650 денари
б) 770 денари
в) 618 денари
г) 900 денари

____ **10** 5 поени/___

Соња имала 580 денари. Требала да купи подарок за 100 денари. Колку денари ќе и останат на Соња?

а) 484 денари
б) 480 денари
в) 490 денари
г) 478 денари

ТЕСТОВИ - 1 / 3 одд. / Тема - 6: Пари
РЕШЕНИЈА:

1 ANS: Б
10 x 50 - (35 + 47) = 418

PTS: 5

2 ANS: В PTS: 5

3 ANS:
Имал 10 · 50 = 500 денари, а му требале 370 денари.
Заклучок: да, имал доволно пари

PTS: 10

4 ANS: Г PTS: 5

5 ANS:
Му останале 490 - 80· 3 = 490 - 240 = 250 денари

PTS: 10

6 ANS: В PTS: 5

7 ANS:
320 денари + 90 денари + 65 денари = 475 денари

PTS: 10

8 ANS: А, Б PTS: 10

9 ANS: А PTS: 5

10 ANS: Б
На Соња и останале 580 - 100 = 480 денари

PTS: 5

 www.matematika.mk © 2026